Открытый банк заданий образца 2018 года

ЗАДАНИЕ 18-19
Анализ иллюстративного материала

1. Рассмотрите изображение и выполните задание



18. Какие суждения о произведении русского искусства, изображённом на фотографии, являются верными? Выберите два суждения из пяти предложенных. Запишите в таблицу цифры, под которыми они указаны

1) в настоящее время данный портрет хранится в Эрмитаже
2) на фотографии изображена парсуна царя Ивана Грозного
3) данное изображение выполняло роль иконы в одном из кремлёвских храмов
4) данная форма живописи получила активное развитие в России XVII в.
5) портретная живопись в форме парсун просуществовала в России до XIX в.

____	____

19. Какой из храмов был создан в тот век, когда в России правил царь, изображённый на портрете? В ответе запишите цифру, под которой оно указано



ГУ "ЦЭКО"

2. Рассмотрите изображение и выполните задание

18. Какие суждения о произведении русского искусства, изображённом на фотографии, являются верными? Выберите два суждения из пяти предложенных. Запишите цифры, под которыми они указаны

1) на фотографии изображен портрет (парсуна) царя Алексея Михайловича
2) портрет хранится в Золотых кладовых Эрмитажа
3) парсуна создана в XVII в.
4) данная форма живописи получила активное развитие в России XVIII в.
5) в руках царя, изображённого на портрете, скипетр, на его голове – держава.

___	___

19. Какая из икон была создана в том веке, когда в России правил царь, изображённый на портрете? В ответе запишите цифру, под которой оно указано

1)



2)

3)

4)

ГУ "НИЭКО"

3. Рассмотрите изображение и выполните задание



18. Какие суждения о памятнике архитектуры, изображенном на фотографии, являются верными? Выберите два суждения из пяти предложенных. Запишите в таблицу цифры, под которыми они указаны.

1) Церковь находится в г. Владимире.
2) Храм построен в стиле «нарышкинское барокко».
3) Церковь была построена в честь рождения наследника Василия III.
4) Церковь построена в шатровом стиле.
5) Церковь была разрушена во время бомбардировки в годы Великой Отечественной

19. Какие из зданий, представленных ниже, были построены в годы царствования правителя, в честь рождения которого была сооружена изображённая выше церковь?

1)

2)

3)

4)

РЕШУЕГЭ.РФ

4. Рассмотрите изображение и выполните задание

18. Какие суждения о памятнике архитектуры, изображённом на фотографии, являются верными? Выберите два суждения из пяти предложенных. Запишите в таблицу цифры, под которыми они указаны

1) здание собора выполнено в стиле раннего классицизма
2) памятник храмового зодчества создан в первой половине XVIII в.
3) автором проекта храма является Доменико Трезини
4) собор посвящён апостолу Петру
5) в соборе похоронены русские цари от Алексея Михайловича до Николая II

____	____

19. Какой из памятников архитектуры, представленных ниже, был построен в том же веке, в котором был создан собор?

1)

2)

3)

4)

5. Рассмотрите изображение и выполните задание

18. Какие суждения о памятнике, изображённом на фотографии, являются верными? Выберите два суждения из пяти предложенных. Запишите в таблицу цифры, под которыми они указаны

1) памятник был посвящён тысячелетию России
2) памятник был установлен в Новгороде
3) в качестве одного из персоналий памятника является Иван Грозный
4) памятник был установлен в период правления Николая I
5) автором памятника является О. Монферран

___	___

19. Кто из императоров, представленных ниже, правил Россией в то время, когда был создан этот памятник?

1)

2)

3)

4)

6. Рассмотрите изображение и выполните задание

18. Какие суждения о данном изображении являются верными? Выберите два суждения из пяти предложенных. Запишите в таблицу цифры, под которыми они указаны.

1) Битва, событие которой изображено на картине, закончилась победой русского войска.

2) В поединке, изображённом на картине, русский воин остался жив.

3) В битве, изображённой на данной картине, русское войско сражалось с немецкими рыцарями.

4) События, изображённые на картине, произошли в XIII в.

5) Русский воин изображён на картине слева от зрителя.

____	____

19. На каких картинах А. М. Васнецова изображена Москва после правления князя, при котором состоялась данная битва? В ответе запишите две цифры, под которыми они указаны.



7. Рассмотрите изображение и выполните задание

18. Какие суждения о событиях, изображённых на картине, являются верными? Выберите два суждения из пяти предложенных. Запишите в таблицу цифры, под которыми они указаны.

1) Событие, изображённое на картине, происходило в Москве.
2) Главными зачинщиками изображённого события выступили полки иноземного строя.
3) Изображённые на картине события связаны со стрелецким бунтом.
4) Изображённый на картине священнослужитель - патриарх Никон.
5) Изображённое событие завершилось дворцовым переворотом.

___	___

19. Какое из событий, изображённых на представленных ниже репродукциях, произошло в тот же век, что и выше представленное? В ответе запишите цифру, под которой оно указано.



7. Рассмотрите изображение и выполните задание



18. Какие суждения об изображённых на картине событиях являются верными? Выберите два суждения из пяти предложенных. Запишите в таблицу цифры, под которыми они указаны.

1) На картине изображены события, относящиеся к первой половине XIX в.
2) Этой железной дороге посвятил стихотворение А. С. Пушкин.
3) Куратором строительства дороги был назначен А. А. Аракчеев.
4) На картине изображена Транссибирская железная дорога.
5) Событие, изображённое на картине, положило начало промышленному перевороту в России.

___	___

19. Какие из изображённых на репродукциях событий относятся к царствованию того же императора, при котором происходили изображённые на картине события? В ответе запишите две цифры, под которыми они указаны.

1)

2)

3)

4)

8. Рассмотрите изображение и выполните задание

18. Какие суждения о памятнике, изображённом на фотографии, являются верными? Выберите два суждения из пяти предложенных. Запишите в таблицу цифры, под которыми они указаны.

1) Памятник был сооружён в честь победы России в Русско-турецкой войне 1877-1878 гг.
2) Памятник находится в Новгороде.
3) Инициатива создания памятника принадлежит Александру III.
4) Автором памятника является скульптор И. Мартос.
5) Памятник был создан на средства казны и народные пожертвования.

___	___

19. Какие из памятников, изображённых ниже, были созданы в то же царствование, что и изображённый памятник? В ответе запишите две цифры, под которыми они указаны.

1)

2)

3)

4)

ГУ ЦРКО

8. Рассмотрите изображение и выполните задание



18. Какие суждения о данном памятнике архитектуры являются верными? Выберите два суждения из пяти предложенных. Запишите в таблицу цифры, под которыми они указаны.

1) Церковь была построена в X в.
2) Это первая каменная постройка на Руси.
3) Церковь построена в стиле нарышкинского барокко.
4) Церковь относится к шедеврам владимиро-суздальской архитектуры.
5) Строительство этого храма относится к правлению Андрея Боголюбского.

___	___

19. Какой из ниже приведённых памятников архитектуры был построен в том же веке, что и изображённый выше? В ответе запишите цифру, под которой он указан.



10. Рассмотрите изображение и выполните задание



18. Какие суждения о данном памятнике архитектуры являются верными? Выберите два суждения из пяти предложенных. Запишите в таблицу цифры, под которыми они указаны,

1) это здание было построено во второй половине XIX в.
2) здание построено в стиле классицизма
3) это здание находится в Москве
4) здание было построено при императоре Александре I
5) в создании проекта здания принимал участие архитектор И. О. Бове

____	____

19. Какие из приведенных памятников архитектуры построены в том же стиле и в ту же эпоху, что и приведенный на изображении, приведённом в задании В12. В ответе запишите две цифры, под которыми они указаны.

1

2

3

4

11. Рассмотрите изображение и выполните задание

18. Какие суждения о соборе на изображении являются верными? Выберите два суждения из пяти предложенных. Запишите в таблицу цифры, под которыми они указаны.

1) Данный собор выстроен в стиле ампир.
2) Архитектор собора — А. Н. Воронихин.
3) Строительство собора было посвящено победе России в Северной войне.
4) Собор был построен при Александре II.
5) Собор находится в Москве.

____	____

19. Кто из императоров, представленных ниже, правил Россией в то время, когда был создан этот памятник?

1)

2)

3)

4)

12. Рассмотрите изображение и выполните задание

18. Какие суждения о плакате являются верными? Выберите два суждения из пяти предложенных. Запишите в таблицу цифры, под которыми они указаны.

1) Плакат появился в годы восстановительной пятилетки.
2) Руководителем страны в период появления плаката был Н.С. Хрущёв.
3) Период, когда появился данный плакат, вошёл в историю как «оттепель».
4) При освоении целины зерновая культура, которой посвящён плакат, была преобладающей.
5) Результатом кукурузной компании было решение проблемы снабжения страны продовольствием.

___	___

19. Какой из плакатов, представленных ниже, относится к тому же периоду, что и данный? В ответе запишите цифру, под которой он указан.

1)

3)

2)

4)

РЕШУЕГЭ.РФ

13. Рассмотрите изображение и выполните задание

18. Какие суждения, связанные с данным изображением, являются верными? Выберите два суждения из пяти предложенных. Запишите в таблицу цифры, под которыми они указаны.

1) В период проведения Олимпиады, символика которой представлена на изображении, Советским Союзом руководил Н.С. Хрущёв.

2) Олимпиада, символика которой представлена на изображении, стала второй Олимпиадой, проведённой на территории СССР.

3) На данном изображении представлена символика Зимних Олимпийских игр, проходивших в Москве.

4) В Олимпиаде, символика которой представлена на изображении, не принимала участия команда США.

5) СССР бойкотировал следующие Олимпийские игры, которые проходили в США после Олимпиады в Москве.

___	___

19. На какой из фотографий, представленных ниже, изображён деятель культуры, который был наиболее популярен в период подготовки и проведения Олимпийских игр, символика которых представлена выше? В ответе запишите цифру, под которой он указан.

ГУ "ЦРКО"

14. Рассмотрите изображение и выполните задание

18. Какие суждения о данной картине являются верными? Выберите два суждения из пяти предложенных.

Запишите в таблицу цифры, под которыми они указаны.

1) На картине изображены представители царской династии.

2) Автор картины являлся членом Товарищества передвижных художественных выставок.

3) Данная картина является единственным обращением её автора к теме истории России.

4) Действие картины происходит в XVII в.

5) Автором картины является В.И. Суриков.

___	___

19. Какой из данных памятников архитектуры был создан при жизни персонажей, изображённых на картине? В ответе запишите цифру, под которой этот памятник архитектуры указан.

ГУ ЦЭКО

15. Рассмотрите изображение и выполните задание

18. Какие суждения о данном изображении являются верными? Выберите два суждения из пяти предложенных. Запишите в таблицу цифры, под которыми они указаны.

1) Инициатором события, которому посвящена марка, был Б.М. Хмельницкий.
2) Данная марка была выпущена в 1960-х гг.
3) События, отражённые на картине, изображённой на марке, происходили в Москве.
4) В год издания данной марки часть территории РСФСР была передана Украинской ССР.
5) Последствием события, которому посвящена марка, стала Смоленская война.

___	___

19. Укажите изображение, на котором представлен объект, построенный в том же веке, когда произошло событие, которому посвящена марка. В ответе запишите цифру, под которой этот объект указан.



16. Рассмотрите изображение и выполните задание

18. Какие суждения о данной карикатуре являются верными? Выберите два суждения из пяти предложенных. Запишите в таблицу цифры, под которыми они указаны.

1) Данная карикатура создана в первой половине 1930-х гг.

2) В момент, когда произошло событие, которому посвящена карикатура, СССР вёл войну с Финляндией.

3) Карикатура была создана в СССР и опубликована в печати в тот же год, когда произошло событие, которому она посвящена.

4) Карикатура посвящена нарушению международного договора одной из стран.

5) Событие, которому посвящена карикатура, означало начало Великой Отечественной войны.

___	___

19. Укажите изображение, на котором представлен объект, построенный в том же веке, когда произошло событие, которому посвящена марка. В ответе запишите цифру, под которой этот объект указан.



ГУ "ЦЭКУ"

17. Рассмотрите изображение и выполните задание



18. Какие суждения, связанные с картиной, которую Вы видите, являются верными? Выберите два суждения из пяти предложенных. Запишите в таблицу цифры, под которыми они указаны.

1) С деятельностью царя, изображённого на картине, связано превращение России в морскую державу.

2) Царь, изображённый на картине, установил порядок престолонаследия строго по нисходящей мужской линии.

3) Изображённые на картине исторические персонажи жили во второй половине XVIII в.

4) Между историческими персонажами, изображёнными на картине, возник конфликт, который стал причиной смерти одного из них.

5) Художник, написавший данную картину, входил в объединение «Мир искусства».

____	____

19. Какие из представленных ниже архитектурных сооружений строились по повелению царя, изображённого на картине? В ответе запишите две цифры, под которыми они указаны.

ГУПЦЭКО

18. Рассмотрите изображение и выполните задание

18. Какие суждения о скульптуре, изображённой на фотографии, являются верными? Выберите два суждения из пяти предложенных.

1) скульптура была создана в период после Великой Отечественной войны
2) в настоящее время скульптура находится в г. Санкт-Петербурге
3) на скульптуре показаны орудия труда, изображавшиеся на гербе СССР
4) автором скульптуры является П. К. Клодт
5) скульптура символизировала единство рабочего класса и крестьянства

___	___

19. Какие из зданий, представленных ниже, были построены в годы руководства страной того же государственного деятеля, при котором была создана данная скульптура? В ответе запишите две цифры, под которыми они указаны.

1)

3)

2)

4)

19. Рассмотрите изображение и выполните задание

18. Какие суждения о данном монументе являются верными? Выберите два суждения из пяти предложенных. Запишите в таблицу цифры, под которыми они указаны.

1) Название монумента — «Победа».
2) Этот монумент стоит в Севастополе.
3) Название кургана, на котором стоит монумент, — Малахов курган.
4) Этот монумент посвящен событиям Великой Отечественной войны.
5) Автор монумента — скульптор Е. В. Вучетич.

____	____

19. Какие монументы посвящены событиям того же периода, что и изображённый выше? В ответе запишите 2 цифры, под которыми они указаны.

1)

2)

3)

4)

РЕШУЕГЭ.РФ

ГУ ЦЭКО

20. Рассмотрите изображение и выполните задание

18. Какие суждения о данной картине являются верными? Выберите два суждения из пяти предложенных. Запишите в таблицу цифры, под которыми они указаны.

1) Одним из руководителей обороны города, которой посвящена картина, являлся Г. К. Жуков.

2) На картине показана оборона Москвы.

3) Картина написана в рамках социалистического реализма.

4) События, изображённые на картине, происходят в годы Великой Отечественной войны.

5) Город, оборона которого изображена на картине, не был сдан врагу.

____	____

19. Какие скульптуры символизируют эпоху той же войны, что и данная картина? В ответе запишите две цифры, под которыми они указаны.

ГУ ЦРКО

21. Рассмотрите изображение и выполните задание

18. Какие суждения, связанные с изображением, которое Вы видите, являются верными? Выберите два суждения из пяти предложенных. Запишите в таблицу цифры, под которыми они указаны.

1) Война, в память о которой установлен изображённый обелиск, способствовала стабилизации внутриполитической обстановки в России.

2) Следствием войны, в память о которой установлен изображённый обелиск, была утрата Россией всего острова Сахалин.

3) Сторонником развязывания данной войны был С. Ю. Витте.

4) В начале войны, в память о которой установлен изображённый обелиск, вражеские корабли попытались захватить русский крейсер и канонерскую лодку в корейском порту Чемульпо.

5) Участниками войны, в память о которой установлен изображённый обелиск, были Р. И. Кондратенко и С. О. Макаров.

____	____

19. Кто из представленных ниже русских деятелей литературы были современниками войны, в память о которой установлен изображённый обелиск? В ответе запишите две цифры, под которыми они указаны.



ГУ ЦРКО

22. Рассмотрите изображение и выполните задание

18. Какие суждения о данном изображении являются верными? Выберите два суждения из пяти предложенных. Запишите в таблицу цифры, под которыми они указаны.

1) изображённое здание выстроено в стиле классицизма
2) архитектор здания — А. Н. Воронихин
3) история здания связана с историей дореволюционных Государственных дум
4) здание было построено в XIX в.
5) здание находится в Москве

____	____

19. Какие правители правили в том же веке, когда был построен данный дворец? В ответе запишите две цифры, под которыми они указаны.

1

2



3

4

23. Рассмотрите изображение и выполните задание



18. Какие суждения о данном изображении являются верными? Выберите два суждения из пяти предложенных. Запишите в таблицу цифры, под которыми они указаны.) это сооружение находится в Москве

2) памятник выстроен в русско-византийском стиле

3) данное здание имеет отношение к военно-морскому флоту

4) архитектор, построивший это здание, — А. Д. Захаров

5) создание этого памятника архитектуры относится ко времени правления Алексея Михайловича

____	____

19. Кто из изображённых ниже людей были современниками перестройки данного памятника архитектуры? В ответе запишите две цифры, под которыми они указаны.



1

2

3

4

24. Рассмотрите изображение и выполните задание

18. Какие суждения о данном изображении являются верными? Выберите два суждения из пяти предложенных. Запишите в таблицу цифры, под которыми они указаны.

1) Данная монета выпущена в период существования СССР.
2) Событие, которому посвящена медаль, связано с именем князя Владимира Святого.
3) На данном изображении представлен символ царской власти в России.
4) Одним из авторов памятника, изображённого на монете, является А. М. Опекушин.
5) Памятник, изображённый на монете, находится в Новгороде

____	____

19. Укажите изображение памятника архитектуры, созданного наиболее близко по времени к событию, в честь юбилея которого выпущена монета. В ответе запишите цифру, под которой этот памятник архитектуры указан.

1

2





3 **4**

24. Рассмотрите изображение и выполните задание.

18. Какие суждения о данном изображении являются верными? Выберите два суждения из пяти предложенных. Запишите в таблицу цифры, под которыми они указаны.

1) Руководитель перелёта, которому посвящена марка, прославился в годы Великой Отечественной войны.

2) Событие, которому посвящена почтовая марка, связано с одним из достижений советского морского флота.

3) Участники перелёта, которому посвящена марка, провели несколько дней на Северном полюсе.

4) Событие, которому посвящена почтовая марка, произошло в 1930-х гг.

5) В ходе перелёта, которому посвящена марка, его участники преодолели более 2 тыс. километров.

____	____

19. Укажите изображение, на котором представлен объект, построенный в период руководства страной политического деятеля, при котором состоялась обозначенная на марке экспедиция. В ответе запишите цифру, под которой оно указано.



ГУ "ЦНТО"

25. Рассмотрите изображение и выполните задание.

18. Какие суждения о данном изображении являются верными? Выберите два суждения из пяти предложенных. Запишите в таблицу цифры, под которыми они указаны.

1) Непосредственным участником события, которому посвящена карикатура, являлся Ф. Рузвельт.

2) Данная карикатура создана в 1935 г.

3) Событие, которому посвящена карикатура, оказало значительное влияние на смену внешнеполитического курса СССР.

4) Событие, которому посвящена карикатура, произошло в Берлине.

5) На данной карикатуре изображены представители Англии и Франции.

___	___

19. Укажите изображение объекта, построенного в годы руководства СССР того же политического деятеля, при котором была создана данная карикатура. В ответе запишите цифру, под которой этот объект указан.



26. Рассмотрите изображение и выполните задание.

18. Какие суждения, связанные с картиной, которую Вы видите, являются верными? Выберите два суждения из пяти предложенных. Запишите в таблицу цифры, под которыми они указаны.



1) Автор данной картины входил в «Товарищество передвижных выставок».

2) Противником русских войск в войне, события которой изображены на данной картине, были австрийские войска.

3) Полководец, изображённый на данной картине, был участником Отечественной войны 1812 года.

4) События, изображённые на данной картине, происходили в годы правления Екатерины II.

5) Полководец, изображённый на данной картине, является автором книги «Наука побеждать».

____	____

19. Какая из представленных ниже картин относится к тому же стилю (направлению) в живописи, что и предшествующая картина? В ответе запишите цифру, под которой она указана.

1

2



3

4

27. Рассмотрите изображение и выполните задание.

18. Какие суждения о памятнике, изображённом на фотографии, являются верными? Выберите два суждения из пяти предложенных. Запишите в таблицу цифры, под которыми они указаны.

1) Памятник был сооружён в честь победы России в Русско-турецкой войне 1877-1878 гг.

2) Памятник находится в Новгороде.

3) Инициатива создания памятника принадлежит Александру III.

4) Автором памятника является скульптор И. Мартос.

5) Памятник был создан на средства казны и народные пожертвования.

19. Какое из зданий, представленных ниже, построено в том же городе, где установлен данный памятник? В ответе запишите цифру, под которой оно указано.

1



2

3

4

БИШЕКО"

28. Рассмотрите изображение и выполните задание.

18. Какие суждения о данной монете являются верными? Выберите два суждения из пяти предложенных. Запишите в таблицу цифры, под которыми они указаны.

1) Исторический деятель, изображенный на монете, погиб в походе, которому она посвящена.

2) Поход, которому посвящена монета, был начат при первом царе из династии Романовых.

3) Современником исторического деятеля, изображённого на монете, был русский первопечатник Иван Фёдоров.

4) В результате похода, которому посвящена монета, к России была присоединена Восточная Сибирь.

5) Поход, которому посвящена монета, описан в произведении Афанасия Никитина «Хождение за три моря».

____	____

19. Какое сооружение было возведено в правление царя, при котором состоялся указанный на монете поход? В ответе запишите цифру, которой это сооружение обозначено.

1

2



3



4

29. Рассмотрите изображение и выполните задание.

18. Рассмотрите изображение, посвященное 60-летию образования СССР, и выполните задание.

Какие суждения о данном изображении являются верными? Выберите два суждения из пяти предложенных. Запишите в таблицу цифры, под которыми они указаны.

1) На почтовом блоке представлены только флаги республик, вошедших в состав СССР в момент его образования.

2) Герб, изображённый на почтовом блоке, существовал в неизменном виде с момента образования СССР.

3) Человек, изображённый на почтовом блоке, являлся Председателем СНК.

4) Человек, изображённый на почтовом блоке, является автором «плана автономизации», который был осуществлён при образовании СССР.

5) Политический деятель, изображённый на почтовом блоке, умер менее чем через два года после события, годовщине которого посвящён почтовый блок.

____	____

19. Какое из изображений, представленных ниже, относится к событиям (явлениям) периода, в который был выпущен данный почтовый блок? В ответе запишите цифру, под которой это изображение указано.

1)

2)

3)

4)

30. Рассмотрите изображение и выполните задание.

18. Какие суждения о городе, старинный план которого Вы видите, являются верными? Выберите два суждения из пяти предложенных. Запишите в таблицу цифры, под которыми они указаны.

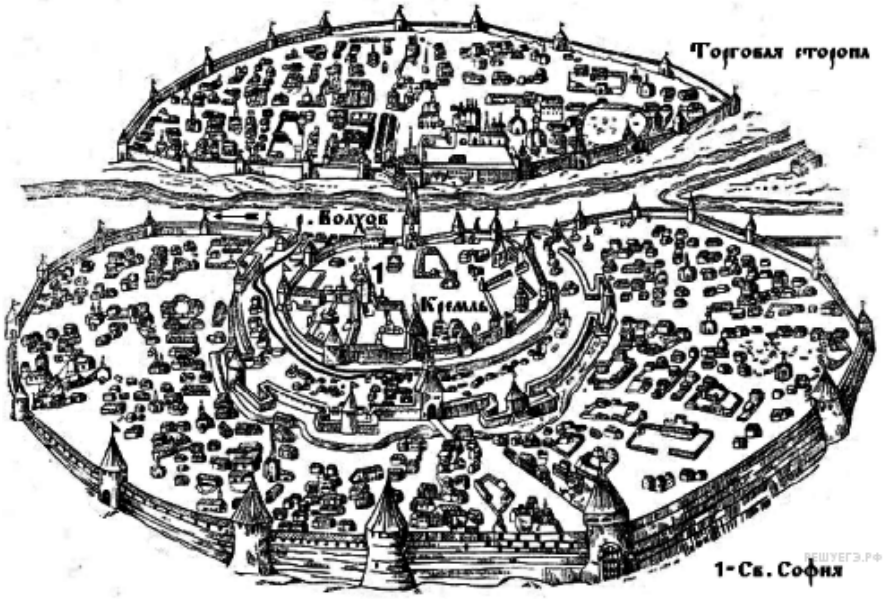

1) В отличие от других русских земель в этом городе редко созывалось народное вече.

2) В период политической раздробленности русских земель в этом городе установилась сильная княжеская власть.

3) С 1113 по 1125 г. в городе правил князь Владимир Мономах.

4) Через этот город в древности проходил торговый путь «из варяг в греки».

5) Город, изображённый на плане, был присоединён к Московскому государству в 1478 г.

____	____

19. Какой из представленных ниже памятников находится в этом городе?
В ответе запишите цифру, под которой он указан.



31.Рассмотрите изображение и выполните задание

18. Какие суждения о данном изображении являются верными? Выберите два суждения из пяти предложенных. Запишите в ответ цифры, под которыми они указаны.

1) Представленная на изображении монета была выпущена в 1965 г.
2) Изображённый на монете памятник находится в Москве.
3) Автор изображённого на монете памятника – М.М. Антокольский.
4) Одним из элементов изображённого на монете памятника является поверженная фашистская символика.
5) Изображённый на монете памятник посвящён выдающемуся советскому военачальнику.

___	___

19. Какой монумент был создан тем же скульптором, авторству которого принадлежит памятник на монете? В ответе запишите цифру, под которой этот монумент указан.

1)

2)

3)

4)

32. Рассмотрите изображение и выполните задание

18.Какие суждения о событиях, процессах отечественной истории, которым посвящена данная почтовая марка, являются верными? Выберите два суждения из пяти предложенных. Запишите в таблицу цифры, под которыми они указаны.

1) Марка посвящена событиям времен новой экономической политики.
2) Главной целью развития экономики в конце 1920-х гг. было создание парка сельскохозяйственных тракторов.
3) Обозначенный на марке призыв относится к первой пятилетке.
4) Руководителем страны в это время был И. В. Сталин.
5) В результате осуществления экономической политики СССР стал самой мощной индустриальной державой мира.

___	___

19.Какие из памятников, представленных ниже, были созданы в тот период, когда страной руководил деятель, положивший начало изображённым на марке процессам? В ответе запишите две цифры, под которыми они указаны.

1)

3)

2)

4)

33. Рассмотрите изображение и выполните задание

Какие суждения о данной карикатуре являются верными? Выберите два суждения из пяти предложенных. Запишите в таблицу цифры, под которыми они указаны.

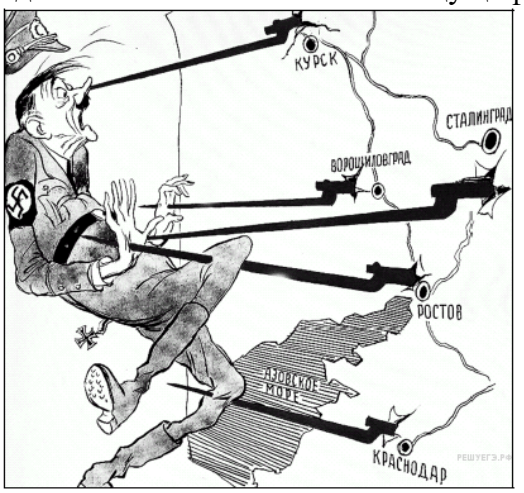

1) На карикатуре изображён политический деятель, пришедший к власти в Германии в 1939 г.

2) На карикатуре отражены события, произошедшие в период коренного перелома в ходе Великой Отечественной войны.

3) Все удары Красной армии, образно показанные на карикатуре, были нанесены в зимний период.

4) В период, когда произошли события, отражённые на карикатуре, уже был открыт Второй фронт во Франции.

5) В период, когда произошли события, отражённые на карикатуре, союзники СССР действовали против Германии и её союзников в Северной Африке.

19. Укажите изображения объектов, возведённых в период руководства СССР политического деятеля, при которых произошли события, отражённые на карикатуре. В ответе запишите две цифры, под которыми они указаны.

34. Рассмотрите изображение и выполните задание

18. Какие суждения о данной карикатуре являются верными? Выберите 2 суждения из пяти предложенных. Запишите в ответ цифры, под которыми они указаны.

1) Одним из последствий Первой мировой войны стал распад империи, которой посвящена данная карикатура.

2) Россия никогда не подписывала международных договоров с империей, которой посвящена карикатура.

3) Империя, которой посвящена карикатура, входила в Антанту.

4) Во время Первой мировой войны русской армии удалось временно захватить часть территории империи, которой посвящена карикатура.

5) В состав империи, которой посвящена карикатура, входила Пруссия.

___	___

19. Какие памятники архитектуры были построены в период существования империи, которой посвящена карикатура? В ответе запишите две цифры, под которыми они указаны.

1)

2)

3)

4)

35. Рассмотрите изображение и выполните задание

18. Какие суждения о данной иллюстрации являются верными? Выберите два суждения из пяти предложенных. Запишите в таблицу цифры, под которыми они указаны.



1) Историческая ситуация, представленная на иллюстрации, возникла в период Смуты.

2) Историческая ситуация, представленная на иллюстрации, разрешилась установлением единоличной власти одного из монархов, сидящих на троне.

3) В левой части иллюстрации помещено изображение матери монархов, представленных в центральной части иллюстрации.

4) Один из монархов, сидящих на троне, стал императором.

5) Один из исторических деятелей, чьи изображения представлены на иллюстрации, первым из правителей Российского государства венчался на царство.

__	__

19. Какие из архитектурных сооружений были возведены в период правления монарха и его отца, дети одного и внуки другого изображены на данной иллюстрации? В ответе запишите две цифры, под которыми они указаны.

36. Рассмотрите изображение и выполните задание

18. Какие суждения о данном изображении являются верными? Выберите два суждения из пяти предложенных. Запишите в таблицу цифры, под которыми они указаны.

1) Карикатура посвящена событиям начала XX в.

2) На карикатуре изображён император Александр II.

3) Изображённый на карикатуре император представлен как сильная, деспотическая личность с железной, непреклонной волей.

4) Карикатура посвящена явлению, получившему в отечественной истории название «распутинщина».

5) На время царствования изображённого императора пришлось участие России в Крымской войне.

19. Кто из изображённых ниже исторических деятелей занимал важные государственные посты в царствование императора, изображённого на карикатуре? В ответе запишите две цифры, под которыми они указаны.

1)

2)

3)

4)

37. Рассмотрите изображение и выполните задание

18. Какие суждения о данном изображении являются верными? Выберите два суждения из пяти предложенных. Запишите в таблицу цифры, под которыми они указаны.

1) Данная почтовая марка была выпущена в годы руководства И.В. Сталина.
2) Неприятельскими войсками в битве, которой посвящена марка, руководил Наполеон.
3) Данная почтовая марка посвящена событиям Северной войны.
4) На марке изображён момент признания победы русского войска в этой битве.
5) Менее чем через год после битвы, которой посвящена марка, Россия заключила с поверженным в этой битве неприятелем мирный договор.

19. Какие из памятников архитектуры были возведёны при том же правителе России, что изображён на почтовой марке? В ответе запишите две цифры, под которыми они указаны.

1)

2)

3)

4)


38. Рассмотрите изображение и выполните задание

18.Какие суждения о данном изображении являются верными? Выберите два суждения из пяти предложенных. Запишите в таблицу цифры, под которыми они указаны.

1) На почтовой марке изображено событие, произошедшее в 1914 г.

2) Изображённое на марке выступление В. И. Ленина произошло на II Всероссийском съезде Советов.

3) Марка была выпущена в период руководства И.В. Сталина.

4) Марка была выпущена в столетний юбилей со дня рождения В. И. Ленина.

5) Одним из результатов события, изображённого на марке, было создание Совета Народных Комиссаров.

19. Кто из представленных ниже исторических деятелей был современниками события, изображённого на марке выше? В ответе запишите две цифры, под которыми они указаны.

1)

2)

3)

4)

39. Рассмотрите изображение и выполните задание

18. Какие суждения о данном изображении являются верными? Выберите два суждения из пяти предложенных. Запишите в таблицу цифры, под которыми они указаны.

1) Марка посвящена мореплавателю, открывшему Антарктиду.

2) В честь данного мореплавателя названо одно из морей, омывающее территорию России.

3) Марка была выпущена в период руководства Л.И. Брежнева.

4) В год выпуска марки был совершен первый пилотируемый космический полёт.

5) Мореплаватель, которому посвящена марка, погиб в ходе путешествия, маршрут которого на ней изображён

19. Кто из правителей России, представленных ниже, были современниками мореплавателя, которому посвящена изображённая выше почтовая марка? В ответе запишите две цифры, под которыми они указаны.

1)

2)

3)

4)

40. Рассмотрите изображение и выполните задание

18. Какие суждения о данном изображении являются верными? Выберите два суждения из пяти предложенных. Запишите в таблицу цифры, под которыми они указаны.

1) К событию, которому посвящён данный плакат, был причастен конструктор С. П. Королёв.
2) Данный плакат относится к времени руководства страной И. В. Сталина.
3) Плакат подчёркивает, что событие, которому он посвящён, является триумфом советского строя.
4) Событие, которому посвящен данный плакат, относится к 1940-м гг.
5) На плакате изображён А. И. Покрышкин.

19. Какие из приведённых ниже плакатов относятся к тому же периоду, что и изображённый выше? В ответе запишите две цифры, под которыми они указаны.

1)		2)	
3)		4)	

41. Рассмотрите изображение и выполните задание

18. Какие суждения о данном изображении являются верными? Выберите два суждения из пяти предложенных.

1) Полководец, изображённый на марке, был современником императора Павла Первого.

2) Данная марка была выпущена в период президентства Б.Н. Ельцина.

3) Данная марка была выпущена в честь 300-летия со дня рождения изображённого на ней полководца.

4) Полководец, изображённый на марке, имеет отношение к строительству Тираспольской крепости.

5) Полководец, изображённый на марке, был участником Северной войны.

___	___

19.Кто из представленных ниже исторических деятелей были современниками полководца, изображённого на марке? В ответе запишите две цифры, под которыми они указаны.

1)		2)	
3)		4)	